15б + 28б = 43б – 78,1%

Шифр участника 6-2

ВСЕРОССИЙСКАЯ ОЛИМПИАДА ШКОЛЬНИКОВ ПО ТЕХНОЛОГИИ

ШКОЛЬНЫЙ ЭТАП, 2022-2023 учебный год
ТЕОРЕТИЧЕСКИЙ ТУР

6 КЛАСС
Направление «Культура дома, дизайн и технологии»

Уважаемый участник олимпиады!

Вам на теоретическом туре предложено 15 заданий, из которых 5– общие задания, 9 – специальные задания, 1 – кейс задание. Задача участника - внимательно ознакомиться с предложенными вопросами и выполнить их в строгом соответствии с формулировкой. Творческое задание №15 (кейс задание) оценивается в 6 баллов. Всего за теоретический тур максимальное количество баллов, которое может набрать участник, составляет 20 баллов. Длительность 1-го тура (теоретического) составляет 90 минут.

Общая часть

+ ***1. Вставьте в текст пропущенные слова***

«Умный дом – это система, которая наблюдает за происходящим в квартире и управляет домашними устройствами как единым механизмом. Система направляет уведомления от датчиков в реальном времени на экран мобильного телефона. Это позволяет реагировать на происшествия без задержек».

+ ***2. Решите задачу, записав ответ***

Из использованных алюминиевых банок в результате переработки можно изготовить много полезных вещей, например, рамы для велосипедов. Узнать алюминиевые изделия, пригодные для переработки, можно по специальной экомаркировке (см. *маркировку)*

Маркировка

При переработке 800 алюминиевых банок получают достаточное количество металла для создания одной рамы для велосипеда.

Сколько таких банок потребуется переработать, чтобы изготовить 15 рам?

Ответ: 12000 банок

+ ***3. О какой профессии идёт речь?***

«Бухгалтер – это специалист, в обязанности которого входит документальное ведение финансово-хозяйственного учёта предприятия. Также этот специалист занимается начислением заработной платы, подготовкой и сдачей отчётов в налоговую инспекцию и фонды».

Шифр участника 6-2

4. Выберите из предложеных вариантов правильную последовательность изготовления дымковской игрушки, отметив знаком «+» правильный ответ

1 - ☐ лепка торса фигурки, рук, головы, сушка, роспись, обжиг 2 - ☒ - лепка фигурки игрушки, грунтовка, роспись, сушка, обжиг 3 - ☐ - лепка торса фигурки, головы, рук, сушка, обжиг, грунтовка, роспись 4 - ☐ - лепка фигурки игрушки, роспись, грунтовка, сушка и обжиг	

5. *Отметьте знаком + правильный ответ.* Расход электроэнергии в быту измеряют в

1 - ☐ - амперах
2 - ☐ - вольтах
3 - ☐ - киловаттах
4 - ☐ - вольт-амперах
5 - ☒ - киловатт-часах

Специальная часть

***6. Отметьте знаком + правильный ответ.* Определите название сельскохозяйственной культуры**

1 - ☐ - киви 2 - ☒ - банан 3 - ☐ - груша 4 - ☐ - кокос 5 - ☐ - слива 6 - ☐ - яблоко 7 - ☐ - ананас 8 - ☐ - виноград	

Шифр участника 6-2

+ ***7. Установите соответствие фото посуды названию материалу, из которого она изготовлена***

№	Фото посуды	Материал
1.		**А.** посуда из жаропрочного стекла
2.		**Б.** эмалированная посуда
3.		**В.** посуда из алюминия
4.		**Г.** посуда с тефлоновым покрытием

Ответ: 1 -Г , 2 - А, 3 -Б ,4 - В

+ ***8. Вставьте пропущенные слова.*** **Чтобы рыбный бульон получился прозрачным, вкусным и ароматным, а вареная рыба получилась мягкой и нежной, готовить их нужно на** СЛАБОМ **огне.**

Шифр участника 6-2

+ ***9. Название какой ягоды (одной из древнейших пищевых культур, используемых для приготовления большого количества блюд) стало названием модели брюк?***

Ответ: БАНАН

+ ***10. Установите соответствие вида волокна и ткани***

Вид волокна	Ткань
1. Животное волокно	А. лён
2. Искусственное волокно	Б. шерсть
3. Растительное волокно	В. лавсан
4. Синтетическое волокно	Г. вискоза

Ответ: 1 – Б, 2 – Г, 3 – А, 4 – В

— ***11. Отметьте знаком + правильный ответ.***

По предстазленному рисунку определите художественный стиль эпохи и костюма

1 - ☐ - Барокко
2 - ☒ - Классицизм
3 - ☐ - Готика
4 - ☐ - Ренессанс
5 - ☐ - Модерн

— ***12.* Назовите силуэты, изображённые на рисунке:**

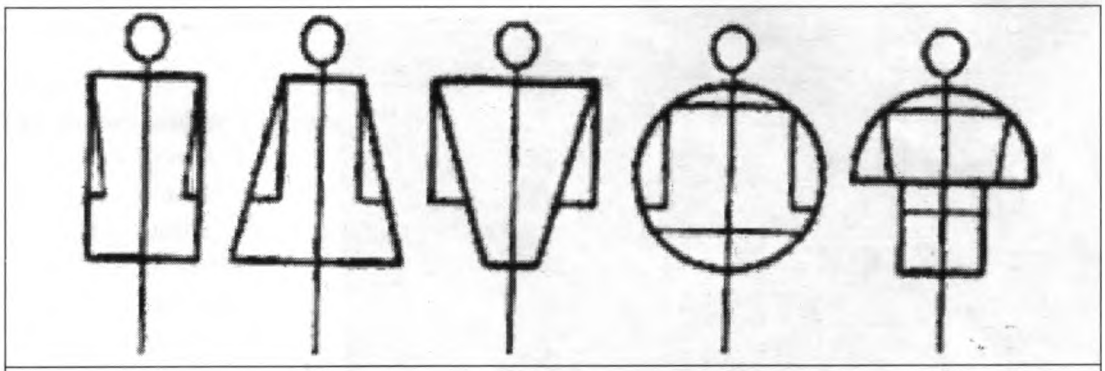

А Б В Г Д

Ответ:

А Прямой
Б Трапециевидный
В Треугольный
Г Круглый
Д Половина прямой часть треугольника

Шифр участника 6-2

+ ***13. Отметьте знаком + правильные ответы***

Паспарту – это …

1 - ☒ - картонная рамка с вырезом в середине для фотографии или рисунка
2 - ☒ - лист плотной бумаги, иногда с орнаментальной рамкой, на которую наклеивается иллюстрация
3 - ☒ - деревянная рамка для картины
4 - ☐ - подрамник под вышивку

— ***14.* Определите по рисунку вид вышивки**



Ответ: шитье

+ ***15.* Творческое задание (6 баллов)**

1. Составьте меню завтрака, включающее бутерброд (1 балл).

1) Каша овсяная с малиной.
2) Блины со сгущёнкой
3) Яичница с помидорами и сыром
4) Чай с лимоном
5) Бутерброд с авакадо и творожным сыром.

+ 2. Перечислите продукты, которые Вам потребуются для приготовления этого завтрака (1 балл).

Яйца, малина, овсянка, мука, сгущёнка, молоко, помидоры, сыр, масло, лимон, вода, хлеб, авакадо, масло оливковое, укроп, лук, чеснок.

+ 3. Перечислите оборудование, которое Вам потребуется (1 балл).

Миксер, кастрюля, сковорода, чайник, тостер, нож.

Шифр участника 6-2

4. Опишите последовательность приготовления бутерброда (2 балла).

1) ПРИГОТОВИТЬ ВСЕ ИНГРЕДИЕНТЫ, ТАКЦЕ КАК: БАГЕТ, ОЛИВКОВОЕ МАСЛО, УКРОП, АВОКАДО, ЧЕСНОК, ЛУК ЗЕЛЕНЫЙ, ЛИМОН, ПЕРЕЦ ЧЕРНЫЙ
2) НАРЕЗАТЬ БАГЕТ И ПОЖАРИТЬ ЕГО В ТОСТЕРЕ.
3) И ЗМЕЛЬШИТЬ ЗЕЛЕНЬ
4) СОВМЕСТИТЬ ТВОРОЖНЫЙ СЫР И ЗЕЛЕНЬ.
5) УЖЕ ПОЖАРЕНЫЙ ХЛЕБ НАМАЗАТЬ ТВОРОЖНЫМ СЫРОМ
6) НА ХЛЕБ КЛАДЕМ НАРЕЗАННОЕ АВОКАДО И СБРЫЗГИВАЕМ НАМЕГОЙ. ЛИМОН
7) КЛАДЕМ НА ХЛЕБ АВОКАДО ЗЕЛЕНЬ

5. Предложите сервировку стола к этому завтраку (1 балл).

1) ВИЛКА.
2) НОЖ
3) ЧАЙНАЯ ЛОЖКА
4) САЛФЕТКИ
5) СТОЛОВАЯ ЛОЖКА

Посуда и приборы должны соответствовать заявленному меню и располагаться в соответствии с правилами сервировки стола.

	Критерии оценивания	Баллы
1	Меню завтрака, включающее бутерброд	1
2	Продукты для приготовления	1
3	Оборудование	1
4	Последовательность приготовления бутерброда	2
5	Сервировка стола к этому завтраку	1
		6 баллов

130 + 220 = 350 - 65,6

Шифр участника 6-5

ВСЕРОССИЙСКАЯ ОЛИМПИАДА ШКОЛЬНИКОВ ПО ТЕХНОЛОГИИ

ШКОЛЬНЫЙ ЭТАП, 2022-2023 учебный год
ТЕОРЕТИЧЕСКИЙ ТУР

6 КЛАСС
Направление «Культура дома, дизайн и технологии»

Уважаемый участник олимпиады!

Вам на теоретическом туре предложено 15 заданий, из которых 5– общие задания, 9 – специальные задания, 1 – кейс задание. Задача участника - внимательно ознакомиться с предложенными вопросами и выполнить их в строгом соответствии с формулировкой. Творческое задание №15 (кейс задание) оценивается в 6 баллов. Всего за теоретический тур максимальное количество баллов, которое может набрать участник, составляет 20 баллов. Длительность 1-го тура (теоретического) составляет 90 минут.

Общая часть

1. Вставьте в текст пропущенные слова

«Камера наблюдения это система, которая наблюдает за происходящим в квартире и управляет домашними устройствами как единым механизмом. Система направляет уведомления от датчиков в реальном времени на экран мобильного телефона. Это позволяет реагировать на происшествия без задержек».

2. Решите задачу, записав ответ

Из использованных алюминиевых банок в результате переработки можно изготовить много полезных вещей, например, рамы для велосипедов. Узнать алюминиевые изделия, пригодные для переработки, можно по специальной экомаркировке (см. *маркировку)*

При переработке 800 алюминиевых банок получают достаточное количество металла для создания одной рамы для велосипеда.

Сколько таких банок потребуется переработать, чтобы изготовить 15 рам?

Маркировка

Ответ: 12000

3. О какой профессии идёт речь?

«Бухгалтер – это специалист, в обязанности которого входит документальное ведение финансово-хозяйственного учёта предприятия. Также этот специалист занимается начислением заработной платы, подготовкой и сдачей отчётов в налоговую инспекцию и фонды».

Шифр участника 6-5

4. Выберите из предложеных вариантов правильную последовательность изготовления дымковской игрушки, отметив знаком «+» правильный ответ

1 - □ лепка торса фигурки, рук, головы, сушка, роспись, обжиг 2 - + - лепка фигурки игрушки, грунтовка, роспись, сушка, обжиг 3 - □ - лепка торса фигурки, головы, рук, сушка, обжиг, грунтовка, роспись 4 - + - лепка фигурки игрушки, роспись, грунтовка, сушка и обжиг	

5. ***Отметьте знаком + правильный ответ.*** **Расход электроэнергии в быту измеряют в**

1 - □ - амперах
2 - + - вольтах
3 - + - киловаттах
4 - □ - вольт-амперах
5 - □ - киловатт-часах

Специальная часть

6. Отметьте знаком + правильный ответ. **Определите название сельскохозяйственной культуры**

1 - □ - киви 2 - + - банан 3 - □ - груша 4 - □ - кокос 5 - □ - слива 6 - □ - яблоко 7 - □ - ананас 8 - □ - виноград	

Шифр участника 6-Б

7. Установите соответствие фото посуды названию материалу, из которого она изготовлена

№	Фото посуды	Материал
1.		**А.** посуда из жаропрочного стекла
2.		**Б.** эмалированная посуда
3.		**В.** посуда из алюминия
4.		**Г.** посуда с тефлоновым покрытием

Ответ: 1 - Г, 2 - А, 3 - Б, 4 - В

8. Вставьте пропущенные слова. **Чтобы рыбный бульон получился прозрачным, вкусным и ароматным, а вареная рыба получилась мягкой и нежной, готовить их нужно на** слабый **огне.**

Шифр участника 6-Б

9. Название какой ягоды (одной из древнейших пищевых культур, используемых для приготовления большого количества блюд) стало названием модели брюк?

Ответ: бантан

10. Установите соответствие вида волокна и ткани

Вид волокна	Ткань
1. Животное волокно	А. лён
2. Искусственное волокно	Б. шерсть
3. Растительное волокно	В. лавсан
4. Синтетическое волокно	Г. вискоза

Ответ: 1 – Б, 2 – Г, 3 – А, 4 - В

11. Отметьте знаком + правильный ответ.

По представленному рисунку определите художественный стиль эпохи и костюма

1 - ☐ - Барокко
2 - ☒ - Классицизм
3 - ☐ - Готика
4 - ☐ - Ренессанс
5 - ☐ - Модерн

***12.* Назовите силуэты, изображённые на рисунке:**

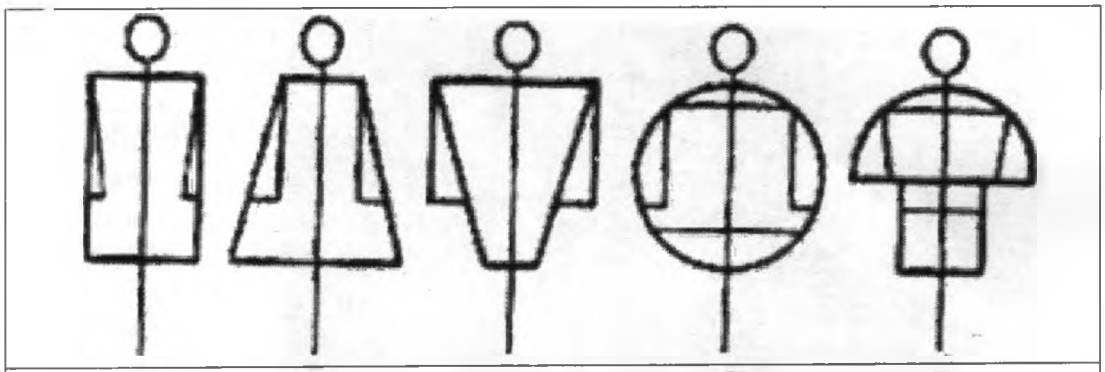

А Б В Г Д

Ответ:

А прямой
Б трапециевидный
В треугольный
Г круг
Д

Шифр участника 6-5

— ***13. Отметьте знаком + правильные ответы***

Паспарту – это …

1 - ☐ - картонная рамка с вырезом в середине для фотографии или рисунка

2 - ☐ - лист плотной бумаги, иногда с орнаментальной рамкой, на которую наклеивается иллюстрация

3 - ☐ - деревянная рамка для картины

4 - ☐ - подрамник под вышивку

— ***14.* Определите по рисунку вид вышивки**



Ответ: А ~~Цветочки~~ гладь

+ ***15.* Творческое задание (6 баллов)**

1. Составьте меню завтрака, включающее бутерброд (1 балл).

1.) бутерброд + чай

2.) яичница

+ 2. Перечислите продукты, которые Вам потребуются для приготовления этого завтрака (1 балл).

1.) хлеб, майнез, огурцы, помидоры, колбаса

2) яйца, соль, колбаса, перцулика

+ 3. Перечислите оборудование, которое Вам потребуется (1 балл).

1.) тарелка

2) сковородка, тарелка

Шифр участника 6-Б

+ 4. Опишите последовательность приготовления бутерброда (2 балла).

1) хлеб намазать майонезом, положить на него помидор и огурец, потом колбасу, сыр.
2) яйцо пожарить, добавить колбасу, и для красоты добавить сверху петрушку.

+ 5. Предложите сервировку стола к этому завтраку (1 балл).

тарелка, салфетка, стакан, вилка, ложка, нож.

Посуда и приборы должны соответствовать заявленному меню и располагаться в соответствии с правилами сервировки стола.

	Критерии оценивания	Баллы
1	Меню завтрака, включающее бутерброд	1
2	Продукты для приготовления	1
3	Оборудование	1
4	Последовательность приготовления бутерброда	2
5	Сервировка стола к этому завтраку	1
		6 баллов

118 + 225 = 336 - 60%

Шифр участника 6-1

ВСЕРОССИЙСКАЯ ОЛИМПИАДА ШКОЛЬНИКОВ ПО ТЕХНОЛОГИИ

ШКОЛЬНЫЙ ЭТАП, 2022-2023 учебный год
ТЕОРЕТИЧЕСКИЙ ТУР

6 КЛАСС
Направление «Культура дома, дизайн и технологии»

Уважаемый участник олимпиады!

Вам на теоретическом туре предложено 15 заданий, из которых 5– общие задания, 9 – специальные задания, 1 – кейс задание. Задача участника - внимательно ознакомиться с предложенными вопросами и выполнить их в строгом соответствии с формулировкой. Творческое задание №15 (кейс задание) оценивается в 6 баллов. Всего за теоретический тур максимальное количество баллов, которое может набрать участник, составляет 20 баллов. Длительность 1-го тура (теоретического) составляет 90 минут.

Общая часть

1. *Вставьте в текст пропущенные слова*

«КАМЕРА НАБЛЮДЕНИЯ – это система, которая наблюдает за происходящим в квартире и управляет домашними устройствами как единым механизмом. Система направляет уведомления от датчиков в реальном времени на экран мобильного телефона. Это позволяет реагировать на происшествия без задержек».

2. *Решите задачу, записав ответ*

Из использованных алюминиевых банок в результате переработки можно изготовить много полезных вещей, например, рамы для велосипедов. Узнать алюминиевые изделия, пригодные для переработки, можно по специальной экомаркировке (см. *маркировку)*

При переработке 800 алюминиевых банок получают достаточное количество металла для создания одной рамы для велосипеда.

Сколько таких банок потребуется переработать, чтобы изготовить 15 рам?

Маркировка

Ответ: 12000

3. *О какой профессии идёт речь?*

«БУХГАЛТЕР – это специалист, в обязанности которого входит документальное ведение финансово-хозяйственного учёта предприятия. Также этот специалист занимается начислением заработной платы, подготовкой и сдачей отчётов в налоговую инспекцию и фонды».

Шифр участника Б-1

4. Выберите из предложеных вариантов правильную последовательность изготовления дымковской игрушки, отметив знаком «+» правильный ответ

1 - □ лепка торса фигурки, рук, головы, сушка, роспись, обжиг 2 - ☒ - лепка фигурки игрушки, грунтовка, роспись, сушка, обжиг 3 - □ - лепка торса фигурки, головы, рук, сушка, обжиг, грунтовка, роспись 4 - □ - лепка фигурки игрушки, роспись, грунтовка, сушка и обжиг	

5. ***Отметьте знаком + правильный ответ.*** **Расход электроэнергии в быту измеряют в**

1 - □ - амперах
2 - □ - вольтах
3 - ☒ - киловаттах
4 - □ - вольт-амперах
5 - □ - киловатт-часах

Специальная часть

6. Отметьте знаком + правильный ответ. **Определите название сельскохозяйственной культуры**

1 - □ - киви 2 - ☒ - банан 3 - □ - груша 4 - □ - кокос 5 - □ - слива 6 - □ - яблоко 7 - □ - ананас 8 - □ - виноград	

Шифр участника 6-1

7. ***Установите соответствие фото посуды названию материалу, из которого она изготовлена***

№	Фото посуды	Материал
1.		**А.** посуда из жаропрочного стекла
2.		**Б.** эмалированная посуда
3.		**В.** посуда из алюминия
4.		**Г.** посуда с тефлоновым покрытием

Ответ: 1 - Г, 2 - А., 3 - Б, 4 - В.

8. ***Вставьте пропущенные слова.*** **Чтобы рыбный бульон получился прозрачным, вкусным и ароматным, а вареная рыба получилась мягкой и нежной, готовить их нужно на** СЛАБОМ **огне.**

Шифр участника 6 – 1

+

9. Название какой ягоды (одной из древнейших пищевых культур, используемых для приготовления большого количества блюд) стало названием модели брюк?

Ответ: БАНАН

+

10. Установите соответствие вида волокна и ткани

Вид волокна	Ткань
1. Животное волокно	А. лён
2. Искусственное волокно	Б. шерсть
3. Растительное волокно	В. лавсан
4. Синтетическое волокно	Г. вискоза

Ответ: 1 – Б , 2 – Г , 3 – А , 4 - В

11. Отметьте знаком + правильный ответ.

По представленному рисунку определите художественный стиль эпохи и костюма

1 - ☐ - Барокко
2 - ☒ - Классицизм
3 - ☐ - Готика
4 - ☐ - Ренессанс
5 - ☐ - Модерн

12. **Назовите силуэты, изображённые на рисунке:**



А Б В Г Д

Ответ:

А ПРЯМОЙ
Б ТРАПЕЦИВИДНЫЙ
В ТРЕУГОЛЬНИК
Г ОВАЛ
Д

Шифр участника 6 – 1

+ ***13. Отметьте знаком + правильные ответы***

Паспарту – это …

1 - ☐ - картонная рамка с вырезом в середине для фотографии или рисунка

2 - ☐ - лист плотной бумаги, иногда с орнаментальной рамкой, на которую наклеивается иллюстрация

3 - ☐ - деревянная рамка для картины

4 - ☐ - подрамник под вышивку

— ***14.* Определите по рисунку вид вышивки**



Ответ: шитье

+ ***15.* Творческое задание (6 баллов)**

1. Составьте меню завтрака, включающее бутерброд (1 балл).

Бутерброд, салат, яичница, кофе.

+ 2. Перечислите продукты, которые Вам потребуются для приготовления этого завтрака (1 балл).

хлеб, сыр, колбаса, майонез
огурцы, помидоры, лук.
2 яйца
кофе.

+ 3. Перечислите оборудование, которое Вам потребуется (1 балл).

тостер, плита, сковорода, кофеварка

Шифр участника 6-1

4. Опишите последовательность приготовления бутерброда (2 балла).

ХЛЕБ, МАЙОНЕЗ, СЫР, КОЛБАСА, ХЛЕБ.

5. Предложите сервировку стола к этому завтраку (1 балл).

2 ТАРЕЛКИ, ВИЛКА, ЧАЙНАЯ ЛОЖКА, ЧАШКА.

Посуда и приборы должны соответствовать заявленному меню и располагаться в соответствии с правилами сервировки стола.

	Критерии оценивания	Баллы
1	Меню завтрака, включающее бутерброд	1
2	Продукты для приготовления	1
3	Оборудование	1
4	Последовательность приготовления бутерброда	2
5	Сервировка стола к этому завтраку	1
		6 баллов

6-3 Т Пр
12б + 18б=30б 54,5%

Шифр участника

ВСЕРОССИЙСКАЯ ОЛИМПИАДА ШКОЛЬНИКОВ ПО ТЕХНОЛОГИИ

ШКОЛЬНЫЙ ЭТАП, 2022-2023 учебный год
ТЕОРЕТИЧЕСКИЙ ТУР

6 КЛАСС
Направление «Культура дома, дизайн и технологии»

Уважаемый участник олимпиады!

Вам на теоретическом туре предложено 15 заданий, из которых 5– общие задания, 9 – специальные задания, 1 – кейс задание. Задача участника - внимательно ознакомиться с предложенными вопросами и выполнить их в строгом соответствии с формулировкой. Творческое задание №15 (кейс задание) оценивается в 6 баллов. Всего за теоретический тур максимальное количество баллов, которое может набрать участник, составляет 20 баллов. Длительность 1-го тура (теоретического) составляет 90 минут.

Общая часть

+ ***1. Вставьте в текст пропущенные слова***

«умный дом – это система, которая наблюдает за происходящим в квартире и управляет домашними устройствами как единым механизмом. Система направляет уведомления от датчиков в реальном времени на экран мобильного телефона. Это позволяет реагировать на происшествия без задержек».

+ ***2. Решите задачу, записав ответ***

Из использованных алюминиевых банок в результате переработки можно изготовить много полезных вещей, например, рамы для велосипедов. Узнать алюминиевые изделия, пригодные для переработки, можно по специальной экомаркировке (см. *маркировку)*

Маркировка

При переработке 800 алюминиевых банок получают достаточное количество металла для создания одной рамы для велосипеда.

Сколько таких банок потребуется переработать, чтобы изготовить 15 рам?

Ответ: 12000

+ ***3. О какой профессии идёт речь?***

«бухгалтер – это специалист, в обязанности которого входит документальное ведение финансово-хозяйственного учёта предприятия. Также этот специалист занимается начислением заработной платы, подготовкой и сдачей отчётов в налоговую инспекцию и фонды».

Шифр участника _____

4. Выберите из предложеных вариантов правильную последовательность изготовления дымковской игрушки, отметив знаком «+» правильный ответ

1 - ☐ лепка торса фигурки, рук, головы, сушка, роспись, обжиг 2 - ☐ - лепка фигурки игрушки, грунтовка, роспись, сушка, обжиг 3 - ☐ - лепка торса фигурки, головы, рук, сушка, обжиг, грунтовка, роспись 4 - ☑ - лепка фигурки игрушки, роспись, грунтовка, сушка и обжиг	

5. ***Отметьте знаком + правильный ответ.*** **Расход электроэнергии в быту измеряют в**

1 - ☐ - амперах
2 - ☐ - вольтах
3 - ☐ - киловаттах
4 - ☐ - вольт-амперах
5 - ☑ - киловатт-часах

Специальная часть

6. Отметьте знаком + правильный ответ. **Определите название сельскохозяйственной культуры**

1 - ☐ - киви 2 - ☑ - банан 3 - ☐ - груша 4 - ☐ - кокос 5 - ☐ - слива 6 - ☐ - яблоко 7 - ☐ - ананас 8 - ☐ - виноград	

Шифр участника 6-3

7. ***Установите соответствие фото посуды названию материалу, из которого она изготовлена***

№	Фото посуды	Материал
1.		**А.** посуда из жаропрочного стекла
2.		**Б.** эмалированная посуда
3.		**В.** посуда из алюминия
4.		**Г.** посуда с тефлоновым покрытием

Ответ: 1 - Г, 2 - А, 3 - В ,4 - Б

8. ***Вставьте пропущенные слова.*** **Чтобы рыбный бульон получился прозрачным, вкусным и ароматным, а вареная рыба получилась мягкой и нежной, готовить их нужно на** горячем **огне.**

Шифр участника 6-3

9. Название какой ягоды (одной из древнейших пищевых культур, используемых для приготовления большого количества блюд) стало названием модели брюк?

Ответ: банан

10. Установите соответствие вида волокна и ткани

Вид волокна	Ткань
1. Животное волокно а,б	А. лён
2. Искусственное волокно	Б. шерсть
3. Растительное волокно	В. лавсан
4. Синтетическое волокно	Г. вискоза

Ответ: 1 – а б, 2 – , 3 – , 4 -

11. Отметьте знаком + правильный ответ.

По представленному рисунку определите художественный стиль эпохи и костюма

1 - ☑ - Барокко
2 - ☐ - Классицизм
3 - ☐ - Готика
4 - ☐ - Ренессанс
5 - ☐ - Модерн

***12.* Назовите силуэты, изображённые на рисунке:**

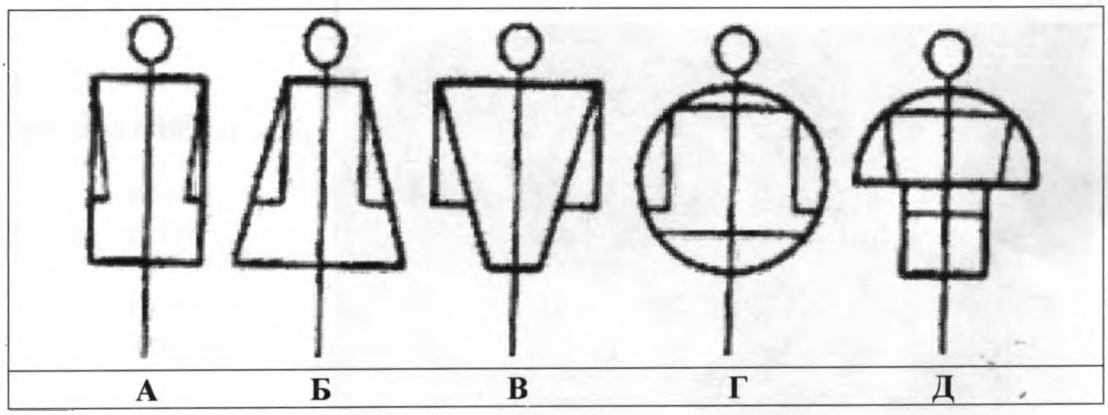

Ответ:

А прямой
Б трапециевидный
В присборенный
Г овал
Д половина и часть прямоугольный

Шифр участника 6-3

— ***13. Отметьте знаком + правильные ответы***

Паспарту – это …

1 - ☑ - картонная рамка с вырезом в середине для фотографии или рисунка
2 - ☐ - лист плотной бумаги, иногда с орнаментальной рамкой, на которую наклеивается иллюстрация
3 - ☐ - деревянная рамка для картины
4 - ☐ - подрамник под вышивку

— ***14.* Определите по рисунку вид вышивки**



Ответ: вышивка

+ ***15.* Творческое задание (6 баллов)**

1. Составьте меню завтрака, включающее бутерброд (1 балл).

1. чай
2. бутерброд с ветчиной

+ 2. Перечислите продукты, которые Вам потребуются для приготовления этого завтрака (1 балл).

1. горячая вода, пакетик чая, сахар.
2. хлеб и ветчина.

3. Перечислите оборудование, которое Вам потребуется (1 балл).

ложка, нож.

Шифр участника 6-3

4. Опишите последовательность приготовления бутерброда (2 балла).

на хлеб положить ветчину
в кружку налить горячую воду и положить
сахар и пакетик чая.

5. Предложите сервировку стола к этому завтраку (1 балл).

тарелка. кружка.

Посуда и приборы должны соответствовать заявленному меню и располагаться в соответствии с правилами сервировки стола.

	Критерии оценивания	Баллы
1	Меню завтрака, включающее бутерброд	1
2	Продукты для приготовления	1
3	Оборудование	1
4	Последовательность приготовления бутерброда	2
5	Сервировка стола к этому завтраку	1
		6 баллов